令和８年度

一般入学試験問題

社　会

２月３日（火）

注　意

1　監督の先生から、「始め」の合図があるまで開いてはいけません。 2　この問題とは別に１枚の解答用紙があります。 3　問題用紙と解答用紙両方のきめられた欄に受験番号を記入しなさい。 4　**解答用紙の受験生シール貼付欄にシールを貼り付けなさい。** 5　机の上には、受験票・受験生シール・鉛筆・鉛筆けずり・シャープペンシル・消しゴム・定規以外のものをおいてはいけません。 下敷きは、監督の先生の許可を受けてから使用しなさい。 6　筆記用具などの貸し借りをしてはいけません。 7　問題を読むとき、声を出してはいけません。 8　印刷が悪くてわからないときや、筆記用具などを落としたときなどは、だまって手をあげて、監督の先生に知らせなさい。 9　監督の先生の「止め」という合図があったら、すぐに止めなさい。

答えの書き方

1　問題をよく読んでから答えなさい。答えは、すべて鉛筆またはシャープペンシルで解答用紙に記入しなさい。色鉛筆を使ってはいけません。 2　答えは、はっきりとていねいに書きなさい。なおすときは、きれいに消してから新しい答えを書きなさい。 3　メモには、問題用紙の空白を利用しなさい。

受験番号	

[1]

以下の問いに答えなさい。

【地図 A】

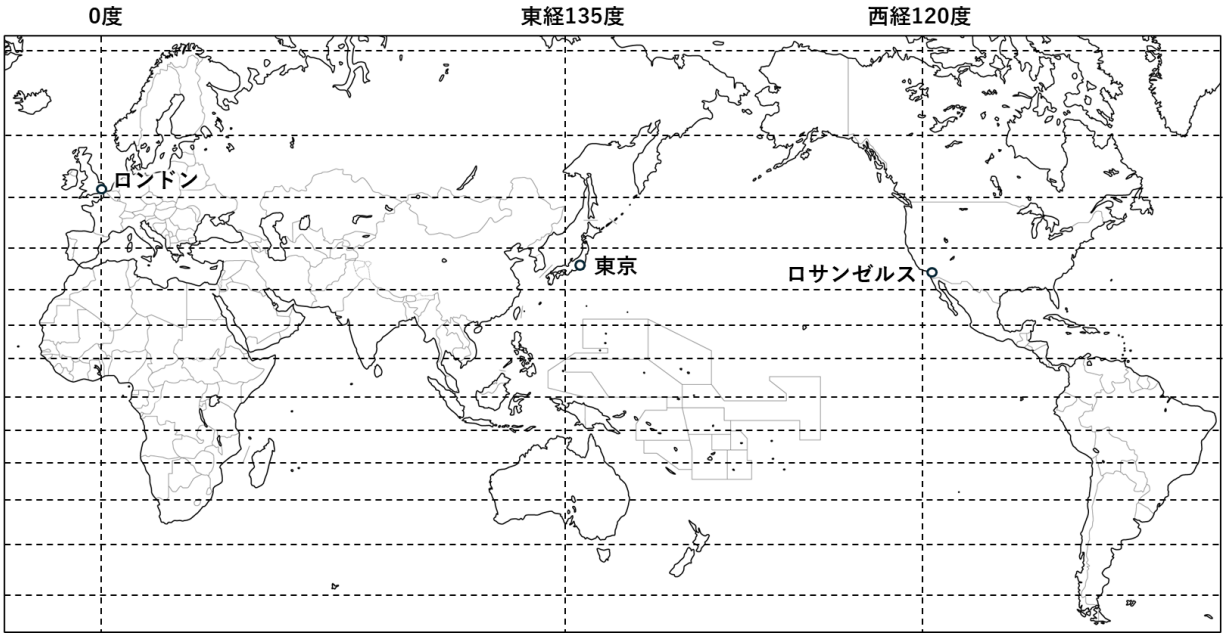

緯線は 10 度間隔で引かれている

問 1　【地図 A】について、以下の問いに答えなさい。

（1）以下のア～エは、【地図 A】の 3 つの都市の間の時差に関して述べた文である。3 つの都市の標準時の基準となっている経緯は、それぞれ【地図 A】に示した 0 度、東経 135 度、西経 120 度である。文の内容が適当でないものを 1 つ選び、記号で答えなさい。なお、文中の時刻はいずれも現地時刻であり、サマータイムは考えないものとする。

ア　3 つの都市のうち、最も早く新年を迎えるのは東京である。

イ　東京が正午の時に、ロンドンは午前 3 時である。

ウ　ロンドンとロサンゼルスの間には、8 時間の時差がある。

エ　ロサンゼルスの時刻は、東京の時刻よりも 7 時間遅い。

（2）【地図 A】の緯線は、赤道を基準として 10 度間隔で引かれている。南緯 40 度の緯線が領土内を通っている国のうち国名を 1 つ答えなさい。

問 2　以下の文は、アフリカの産業や経済に関して述べたものである。この文に関する以下の問いに答えなさい。

アフリカの多くの国々の経済は、少ない種類の農作物や鉱産資源の輸出に依存した状態となっています。このような状態を【　　X　　】経済と呼びます。

（1）文中の空欄【　　X　　】に適する用語を答えなさい。

（2）文中の下線部の部分の内容としては、石油、金、ダイヤモンドなどのほかに、レアメタルと呼ばれる資源も含まれている。私たちの生活の中で、レアメタルがどのようなものに利用されているかについて、簡潔に答えなさい。

問3　ヨーロッパ州について以下の問いに答えなさい。

（1）EU に関して述べたア～エの文のうち、内容が適当でないものを 1 つ選び、記号で答えなさい。

ア　EU に加盟している国家間の貿易には、関税はかけられていない。
イ　EU に加盟しているすべての国で、統一通貨ユーロが導入されている。
ウ　一度 EU に加盟したものの、後に脱退して現在は加盟していない国がある。
エ　EU 加盟国のフランスとドイツの間の出入国の際には、原則としてパスポート審査は不要となっている。

（2）ヨーロッパは、世界の中でも特にエコツーリズムが普及している地域である。エコツーリズムに関して説明したア～エの文のうち、最も適当なものを 1 つ選び、記号で答えなさい。

ア　地域の過疎対策や経済対策として、自然公園を開発してホテルやレジャー施設を建設すること。
イ　地域の自然や文化を壊さないように心がけ、環境とのかかわり方を学びながら観光を行うこと。
ウ　地域の貴重な環境を維持するため、観光地の一部を立ち入り禁止区域として保護すること。
エ　地域の環境や伝統を守るため、観光で訪れたすべての人が農業や林業を体験すること。

問4　北アメリカ州と南アメリカ州について以下の問いに答えなさい。

（1）次のア～ウの文は、アメリカの工業に関して、19 世紀後半ごろ、20 世紀前半ごろ、20 世紀後半ごろのいずれかについて説明したものである。ア～ウを年代の古いものから順に並べ、記号で答えなさい。

ア　流れ作業による自動車の大量生産方式が、ほかの製造業にも広がった。
イ　豊富な鉱物資源と水上交通を活用して、五大湖周辺の都市で重工業が発展した。
ウ　日本やドイツなどから安価で質の良い鉄鋼や自動車などの工業製品が輸入された。

（2）南アメリカ州では、古くから焼畑農業が行われてきた。焼畑農業とはどのようなものか、「灰」という語句を使い簡潔に説明しなさい。

問５　世界の国々に関する、以下の問いに答えなさい。

（１）次の文章が説明している国をア～エから１つ選び、記号で答えなさい。

この国の 1960 年代の輸出品は、繊維製品や履物などの軽工業製品が中心でした。1970 年代に入ると、南東部に臨海工業地帯が形成され、鉄鋼、石油化学、造船、自動車などの重化学工業が発展しました。1990 年代以降は、半導体や薄型テレビ、携帯電話などの先端技術産業が急成長し、輸出の主力となっています。

ア　日本　　イ　韓国　　ウ　中国　　エ　タイ

（２）下の【資料 1】はオーストラリアの年表である。また【資料 2】は、オーストラリアで盛んなスポーツに関して示したものである。資料 1、2 の空欄(a)～(c)に当てはまる語句の正しい組み合わせをア～クより１つ選び、記号で答えなさい。

【資料 1】

18世紀後半	（a）の植民地となる。
19世紀中ごろ	金鉱の発見で移民が急増した。
20世紀初め	連邦国家として独立した。
	（b）政策を制定した。
20世紀後半	（b）政策を撤廃した。

【資料 2】



この競技は（a）で生まれた球技で、（c）と呼ばれています。

ア　a：フランス　　b：多文化主義　　c：ホッケー
イ　a：フランス　　b：多文化主義　　c：クリケット
ウ　a：フランス　　b：白豪主義　　c：ホッケー
エ　a：フランス　　b：白豪主義　　c：クリケット
オ　a：イギリス　　b：多文化主義　　c：ホッケー
カ　a：イギリス　　b：多文化主義　　c：クリケット
キ　a：イギリス　　b：白豪主義　　c：ホッケー
ク　a：イギリス　　b：白豪主義　　c：クリケット

[2]

次の資料は、旅行家のトモキさんがある年の 8 月から 9 月にかけて日本各地を訪れた時の記録の一部である。この資料に関する以下の問いに答えなさい。

8月18日



青森県に行った。八戸市あたりの田んぼでは、稲があまり実っていないところもあった。今年は全国的に米が不足しているとニュースで聞いたけど、このあたりでは昔からこういうことがあったのだろうか。

8月 20 日



今日は十勝平野をドライブした。広い草原が続き、牧場では刈り取られた草が山のように積まれていた。牛たちは牧草を食べながら飼われ、近くには搾乳の設備も見えた。

8月 23 日



千葉県銚子市へ行き、この地方に広くみられる特徴的な土からなる地層を見た。この地域には、畑作地帯が広がっていた。この地層と畑作には、なにか関係があるのかもしれない。

8月 24 日



昼間に銀座や新宿を歩いた。郊外よりもずっと暑く感じた。高層ビルの間を歩くと風もあまり通らない。夜になってもなかなか気温が下がらず、熱帯夜が何日も続いている。

8月 26 日



車の窓から見えた山々がとても高くてきれいだった。周りにはレタスやキャベツの畑がたくさんあった。このような高原地帯でレタスやキャベツの栽培が盛んなのは何か理由があるのかな。

8月 28 日



高速道路で移動している途中、大きな工場が海辺の近くに並んでいた。この地域は昔、繊維の工場が多く建っていたと聞いた。いまはどうなっているのだろう。

8月 29 日

X

海岸を歩くと、入り江が多く、陸地が海に細かく突き出していた。入り江は波が穏やかで、港や養殖いかだが見られた。このような海岸の形が、養殖に向いているのだろう。

8月 31 日~9 月 1 日



瀬戸大橋を渡って、四国に入った。高松市あたりでは雨はあまり降っていなかったのに、高知に入ると雨がずっと降っていた。同じ四国で、なぜこんなに降水量が違うのだろう。

9 月 3 日



今日は鹿児島市から、桜島を見た。桜島が噴火をして、飛行機が欠航したり、車が渋滞していたりした。火山の影響を利用した暮らしとは、どんな暮らしがあるだろう。

問１　8 月 18 日の日記は、東北地方特有の気象現象が原因だったが、その気象現象として最も適当なものをア～エから１つ選び、記号で答えなさい。

ア　3 月～4 月にかけて、オホーツク海から暖かく乾燥した風が吹いてくる。

イ　3 月～4 月にかけて、日本海から冷たく湿った風が吹いてくる。

ウ　6 月～8 月にかけて、オホーツク海から冷たく湿った風が吹いてくる。

エ　6 月～8 月にかけて、日本海から暖かく乾燥した風が吹いてくる。

問２　8 月 20 日の日記に書かれているような、牧草などの飼料を生産し、乳牛の飼育を行っている大規模な農業を何というか答えなさい。

問３　8 月 23 日の日記の「特徴的な土」は関東平野の広い範囲に広がっている。この土について述べた以下の文の空欄（　A　）（　B　）に入る語句として適切な組み合わせをア～エから１つ選び、記号で答えなさい。またこの地層の名称も答えなさい。

富士山や箱根山などからの（　A　）が堆積して出来た地形で、鉄分を多く含むためこの地層は（　B　）色をしているという特徴がある。

ア　A：溶岩　　B：赤　　イ　A：火山灰　B：赤

ウ　A：溶岩　　B：黒　　エ　A：火山灰　B：黒

問４　8 月 24 日の日記のように、東京の都心部などではヒートアイランド現象が問題となっている。この現象をやわらげるための具体的な対策を１つ取り上げ、例文を参考にして、次の 2 点をふまえて答えなさい。

・例文とはちがう内容であること

・理由や効果についても含めること

（例文）自家用車での移動を避け、徒歩や公共交通機関を使うことで人工的な熱の発生を少なくできる。

問5　8月26日の日記を参考にこの地域でレタスやキャベツの栽培が盛んな理由として最も適当なものを、生産や出荷の特徴に着目して、次のア～エから1つ選び答えなさい。

ア　扇状地の水はけのよい土地であり、畑作に適しているから。

イ　冬でも温暖で降水量の多い気候を生かし、年間を通して安定した栽培と出荷ができるから。

ウ　昼夜の気温差が大きい冷涼な気候を生かし、低地の産地とは収穫時期をずらすことができるから。

エ　平地が広く農地がまとまっているため、大型機械を使った効率的な農業が行われているから。

問6　トモキさんの日記をもとに、トモキさんの8月24日～9月1日の移動経路として最も適当と思われるものを、次のア～エから1つ選び、記号で答えなさい。なお、移動経路は破線で示している。

ア

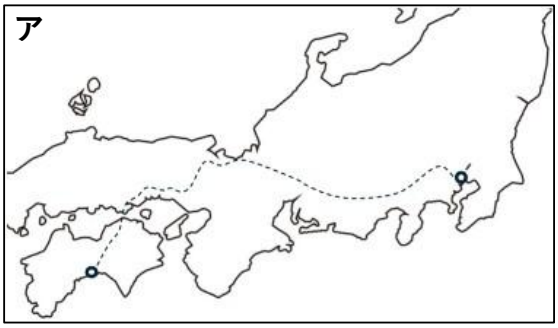

イ

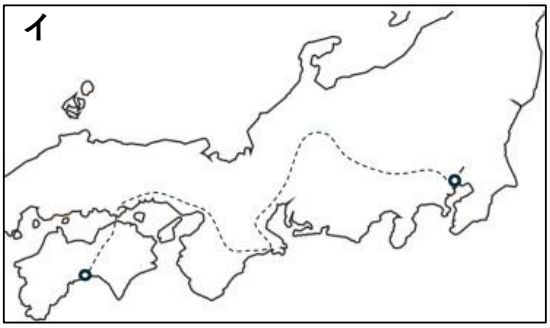

ウ

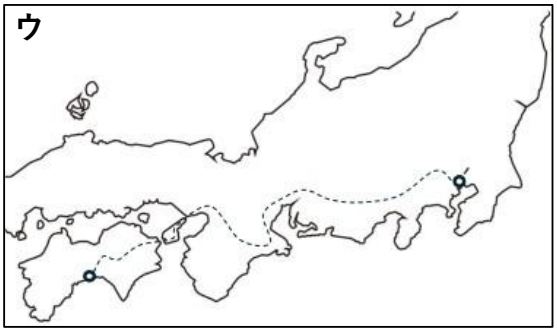

エ

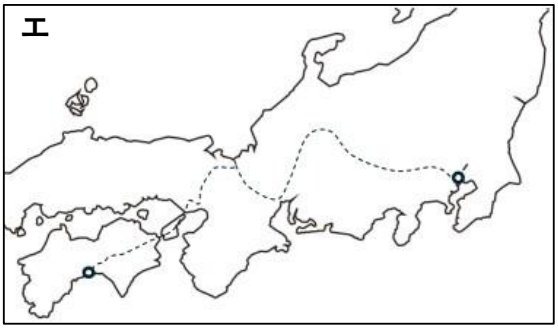

問7　8月29日の日記の［　X　］に入る絵として適切なものを次のア～ウから1つ選び、記号で答えなさい。

ア



イ



ウ



問８　８月 31 日～9 月 1 日の日記について、トモキさんは自宅にもどって高松市と高知市の雨温図を作成し、比較してみた。その結果、5 月～9 月にかけての降水量に大きな差があることに気づいた。このことをふまえ、瀬戸内海側と太平洋側で夏の降水量に大きな差が生じる理由を「季節風」という用語を必ず用いて説明しなさい。





（気象庁などの資料から作成）

問９　トモキさんは、火山と産業との関係に着目し、福井県と比較するために【資料 1】を作成した。【資料 1】に関して述べた文ア～エのうち、内容が最も適当なものを 1 つ選んで記号で答えなさい。

【資料１】



「合計」は田、普通畑、樹園地、牧草地の合計　　農林水産省統計（2022）より作成

ア　鹿児島県に福井県と同じくらいの面積の田が広がっているのは、鹿児島県に広く分布している火山の噴出物からなる土が水をたくわえる性質が高く、水稲栽培に適しているからである。

イ　鹿児島県の普通畑の面積比率が他の農地より高くなっているのは、鹿児島県に広く分布している火山の噴出物からなる土の水はけがよく、大根などの野菜栽培に適しているからである。

ウ　鹿児島県に福井県の 10 倍以上の面積の樹園地が広がっているのは、火山の噴出物にふくまれる豊富な栄養分によって、ミカンやブドウなどの果実に独特な味が生まれるからである。

エ　鹿児島県には福井県の 10 倍以上の面積の牧草地が広がっているのは、牧草地に降ってくる火山の噴出物によって雑草の生育が抑制され、豚や肉牛の飼育管理が容易になるからである。

［3］

アイさんは日本刀に興味があり、日本刀の歴史について調べ、次の資料にまとめた。この資料に関して、以下の問いに答えなさい。

製鉄技術が大陸からもたらされた。

↓

弥生時代

後期には石器の多くが姿を消し、鉄器が普及。生活の中で様々な用途で使われた。

古墳時代

鉄製の農具や武具が普及し、a)<u>墳墓に遺体と共に副葬されるようになる</u>。この時代の日本刀は両刃で反りがない「直刀（ちょくとう）」であった。

平安時代

b)<u>武士の登場</u>により、実戦で使用する日本刀の需要が高まる。馬に乗って戦う戦法が主流だったため、刀身に反りを持たせ、抜きやすく斬りやすい「太刀（たち）」が登場。

鎌倉時代

日本刀を作る技術が進歩し、質も大幅に向上。c)<u>武士が政権を握り</u>、実用性だけでなく美しさも兼ね備えた日本刀が求められた。

この時代に

【 X 】

が登場する

南北朝時代

激しい動乱の時代であり、折れず、よく斬れる実用性のある日本刀が好まれた。この時代特有の身幅が広い短刀（たんとう）が多数作られた。

室町時代

日本刀の武器としての需要が増し、d)<u>身分の低い武士や農民、僧兵も用いるようになった</u>。戦いは徒歩での集団戦に変化し、反りが浅く、扱いやすい「打刀（うちがたな）」が登場。

江戸時代

戦国時代が終わり長い平和の時代が訪れると、日本刀は装飾品として扱われるようになった。日常で身に着けるために短めの「脇指（わきざし、脇差とも表記される）」が作られるようになった。
幕末の動乱期になると、f)<u>攘夷思想の高まり</u>から武器としての日本刀への関心が強まった。

写真１

有名な脇指

写真

e)<u>脇指　無銘貞宗（名物 物吉貞宗）</u>
徳川美術館　蔵

写真２



問１　下線部 a)について、埼玉県の稲荷山古墳や熊本県の江田船山古墳から、写真２のような鉄の武器が出土した。これらの武器には「ワカタケル大王」という名が刻まれていた。このことから、当時のヤマト政権の勢力範囲についてどのようなことが分かるか、簡潔に説明しなさい。

問２　下線部 b）について、平安時代に登場した武士について説明した文として、内容が誤っているものを、ア～エから１つ選び、記号で答えなさい。

ア　武士は血縁や主従関係をもとにして武士団をつくり、地方に勢力を広げた。

イ　武士の中には、都で貴族に仕えて警護や治安の維持を行う者もいた。

ウ　武士団は摂関政治の実権を握り、藤原氏に代わって朝廷の政治を支配した。

エ　荘園では、現地の管理者として治安の維持や年貢の取り立てを行っていた。

問３　下線部 c)について、源頼朝が朝廷からある役職に任命され、武士による政権が誕生した。このとき源頼朝が任命された役職を何というか答えなさい。

問４　資料の【 Ｘ 】には福井の伝統工芸品が入る。次の文はその伝統工芸品について説明したものである。【 Ｘ 】にあてはまる伝統工芸品の名称を答えなさい。

南北朝時代の初めに、京都から移り住んだ刀匠が、刀を作るかたわら農民のために鎌を作ったことが始まりとされており、現在の福井県越前市を代表する伝統工芸となっている。

問5　下線部 d）について 15 世紀になると、一つの目的のために人々が団結する集団が各地で活動するようになり、日本刀を持った農民や僧兵が増えていった。このような社会状況について、アイさんとシンゴさんは以下のような会話をした。会話文の空欄（ ①)、(② ）にあてはまる語句を答えなさい。また、空欄(③)にあてはまる語句をア～エから選び、記号で答えなさい。

アイさん　：室町時代の農民は、村ごとに集まって（ ① ）という組織を作っていたんだよね。自分たちでルールを決めたり、村を守ったりしていたなんて驚きだな。
シンゴさん：そうだね。当時は今の警察のような公的な力が弱かったから、自分たちの力で問題を解決しようとするのが当たり前だったんだって。
アイさん　：でも、秀吉が天下を統一すると刀狩が行われて、農民から刀が没収されたよね。
シンゴさん：うん。農民が武器を持って（ ② ）を起こすのを防いで、農業に専念させる狙いがあったんだ。
アイさん　：これって今の社会にもつながっているよね。今はトラブルがあっても、勝手に暴力で解決するのは禁止されているもんね。
シンゴさん：そうだね。個人で戦う代わりに、裁判所が裁判を行ったりして、ルールに基づいて解決する仕組みになっているんだ。このような、社会の秩序を守る（ ③ ）制度を国が運営してくれるから、僕たちは安全に暮らしていけるんだよね。

ア　監査　　イ　行政　　ウ　司法　　エ　立法

問 6　写真 1 の下線部 e)について、物吉貞宗（ものよしさだむね）は徳川家康の愛刀であったが、彼の死後は尾張（おわり）徳川家で代々受け継がれることになった。アイさんは、尾張徳川家に物吉貞宗がわたった理由を考察し、資料 1 のようにまとめた。レポートの中で、アイさんは、資料 2、3 を参考に、家康がなぜ尾張を「防衛の要」としたかについて考察している。資料 1 の 空欄【　Y　】に入る内容を 50 字程度で書きなさい。ただし、次の 2 つの点に必ず触れること。

・尾張の国の地理的特徴（どのような場所にあるか）

・その場所にあることによる軍事的な役割

資料 1

歴史探究レポート：家康の名刀が語る「守りのデザイン」

1．研究のきっかけ

徳川家康の愛刀「物吉貞宗」は、彼の死後、尾張徳川家に受け継がれた。この名刀が徳川本家ではなく、九男・義直（尾張家の祖）に託された理由を、当時の江戸幕府の支配の仕組みから考察したい。

2．尾張徳川家の地理的役割

資料 2、3 を見ると、尾張の国（現在の愛知県）は【　　Y　　】。家康は最強の親藩をこの地に置くことで、防衛の要としたと考えられる。要所の守りを任せ、信頼のあかしとして、「物吉貞宗」は尾張徳川家に授けられたのではないだろうか。

資料 2　江戸時代の交通

資料

資料３　主な大名の配置



問７　下線部 f)について、攘夷（じょうい）思想が高まっていた幕末の日本では、外国や幕府、朝廷をめぐってさまざまな事件が起こり、特に薩摩藩と長州藩が中心となっていた。次の A～C の説明文はどちらの藩についてのものか、正しい組み合わせをア～カより 1 つ選び、記号で答えなさい。

A　1863 年にイギリス人を殺傷した生麦事件の報復として、イギリス艦隊と戦った。この戦争で西洋の軍事力を痛感し、攘夷は不可能だと悟ってイギリスに接近するようになった。

B　朝廷に働きかけて急進的な攘夷を推進していたが、会津藩らによって京都から追放された。その後、勢力を取り戻そうとして京都で幕府軍と戦って敗れた。

C　下関の砲台から外国船を砲撃したが、その後にイギリス・フランス・アメリカ・オランダの 4 カ国連合艦隊から攻撃を受けて敗北した。これにより、攘夷をあきらめて倒幕へと方針を変えた。

ア　A：長州藩　　B：長州藩　　C：薩摩藩
イ　A：長州藩　　B：薩摩藩　　C：長州藩
ウ　A：長州藩　　B：薩摩藩　　C：薩摩藩
エ　A：薩摩藩　　B：長州藩　　C：長州藩
オ　A：薩摩藩　　B：長州藩　　C：薩摩藩
カ　A：薩摩藩　　B：薩摩藩　　C：長州藩

[4]

ミキオさんは夏季休暇を利用し、2025 年 4 月 13 日から開催された大阪・関西万博を訪れた。以下の①～⑥のメモは、ミキオさんが訪れたパビリオンの感想である。メモの内容に関して、以下の問いに答えなさい。

メモ①
建物の外壁が国旗と同じ鮮やかな赤だった。展示の中では「月と太陽のモニュメント」が印象的だった。これはこの国の文明の象徴であり、日本との友好もイメージされたものだった。日本との友好関係のきっかけになったのは、1890年の【　X　】遭難事件で、現在も和歌山県の旧大島村（現在の串本町）との交流が続いているらしい。

メモ②
この国のパビリオンは今回の万博の中でも日本館に次いで2番目の規模で、異国情緒あふれる建物が印象的であった。この国は、a)石油大国として知られているが、石油依存からの脱却を目指すための国家戦略を立て、展示ではそのプロジェクトの紹介がされていた。

メモ③
建物は木造で、最初は日本のパビリオンかと疑ってしまった。宇宙開発コーナーが印象に残っている。この国は東西冷戦の時には、資本主義の西側陣営の中心となり、b)ソ連に対抗して宇宙開発を推進させた。ロケット発射体験やアポロ17号が持ち帰った「月の石」の展示など興味深かった。

メモ④
パビリオンのテーマは「芸術が生命を再生する」で、テーマの通りに多くの芸術作品が展示されていた。特に印象に残ったのは、c)『アトランティコ手稿』である。これを書いた芸術家は、科学や工学の分野にも素晴らしい才能を発揮したすごい人だったのだと知った。

メモ⑤
この国はメモ④の国の首都となっている都市の市街地の中にある小国であるからか、パビリオンもメモ④のものと併設されていた。万博開催の1週間後に、キリスト教のカトリック教会の頂点に立つ【　Y　】が亡くなってしまったから、パビリオン内に亡くなった【　Y　】への追悼メッセージを書く記帳台が置かれていた。

メモ⑥
国際赤十字・赤新月運動館のテーマは「人間を救うのは、人間だ」。展示されていたd)国際赤十字が撮影した紛争や自然災害時の支援や救護の様子を写した写真を見て、これは遠い世界の話じゃない、今この瞬間もどこかで起きている現実なのだと感じた。困っている誰かのために、自分には何ができるんだろうか。

問１　メモ①の空欄【　Ｘ　】にあてはまる語句として最も適当なものを次のア～エから１つ選び、記号で答えなさい。

ア　アロー号　　イ　エルトゥールル号

ウ　第五福竜丸　　エ　ノルマントン号

問２　下線部 a)について、メモ②のパビリオンの国は、アラビア半島に位置している。この国や石油資源に関する以下の問いに答えなさい。

(1) この国の西側に位置するパレスチナ地方で、ユダヤ人がイスラエルを建国したことをめぐって、1948 年から 4 回にわたってイスラエルとアラブ諸国との間で起きた戦争を総称して何というか答えなさい。

(2) 前問(1)の 4 回目の戦争をきっかけに石油危機が起きた。石油危機が日本経済に与えた影響について述べた以下のア～エの文のうち、内容が適当でないものを 1 つ選び記号で答えなさい。

ア　安価な石油に依存していた生産体制が崩れたため、経済成長率が急激に低下した。

イ　石油価格の高騰と輸入量減少により、省エネルギー社会への転換が各分野で進んだ。

ウ　国内に激しいインフレを引き起こし、日用品の買い占めなどで国民生活が混乱した。

エ　不況の長期化により、工場を海外に移転する企業が増加し産業の空洞化が起きた。

問３　下線部 b)について、宇宙開発のために進められたロケット技術は、核爆弾を運搬する技術としても利用され、世界は核兵器による脅威にさらされるようになった。このような国際情勢の中で、1967 年に佐藤栄作首相によって非核三原則が提唱された。その三原則の内容を答えなさい。

問４　メモ④の下線部 c)は、ある芸術家のメモやスケッチを集めた書物である。下の史料はその一部である。この芸術家として適当なものをア～エから１つ選び、記号で答えなさい。

ア　レオナルド・ダ・ヴィンチ

イ　ラファエロ

ウ　ミケランジェロ

エ　ボッティチェリ



人体や医学に関する内容



機械システムやエネルギーに関する内容

問５　メモ⑤の空欄【　Ｙ　】にあてはまるローマ＝カトリック教会の最高位の称号を答えなさい。

問６　次の活動報告 1、2 は、メモ⑥の下線部 d)に関する日本赤十字社の活動報告の一部である。この 2 つの日本赤十字社の活動や活動の対象になった社会問題に共通する点をア～エからすべて選び、記号で答えなさい。

活動報告 1

パレスチナ赤新月社は困難な状況の中、ガザ市内のアル・クッズ病院、ガザ南部のハン・ユニスのアル・アマル病院を部分的に稼働再開し、臨時の野外病院運営も継続しています。アル・クッズ病院では、2019 年以降、日本赤十字社が職員を派遣し、2023 年 10 月の武力衝突の激化以前まで医療技術支援を行っていました。現在は限定的な機能ながらも、地域住民にとって欠かせない医療拠点となっています。

日本赤十字社資料より作成（一部改）

活動報告 2

3 月 11 日、14 時 56 分。大きな揺れが続く中で、全国の赤十字が動き出しました。東京の本社から調査チームが先遣隊として出動。赤十字病院や支部の職員などでつくる医療救護班が 55 チーム、薬やミルクなどを持って被災地に向かいました。救護班は、被災地の医療機関が回復したら、その役割を終えます。しかし、今回は 9 月末まで 6 ヵ月間続き、阪神・淡路大震災（約 2 ヵ月間）と比べ、異例の長期派遣となりました。

日本赤十字社資料より作成（一部改）

ア　自然災害によって引き起こされた大きな被害に対する支援や救護活動である。
イ　電気や水道、ガス、通信施設などのライフラインに大きな被害が出た。
ウ　自宅での生活が困難になり、避難生活を余儀なくされた人々が大量発生した。
エ　農業や工業に深刻な被害が出たが、現在では問題発生前の水準に回復した。

問７　ミキオさんは、さらに社会の授業で学んだ内容を振り返り、次の追記メモを作成した。このメモは、メモ①～⑥のどの追記になるか、記号で答えなさい。

追記メモ

パビリオンのレストランでは、その国の厳しい基準を満たした牛肉のハンバーガーが提供されている。この国では、広大な穀物地帯で生産される大量の飼料を利用して、効率的に牛を育てる体制が整っている。特に飼料として利用されるトウモロコシの生産は世界一である。かつては飼料の産地で育てるのが主流だったが、近年は輸送網の発達により、飼料を輸送して需要が多い大都市の近郊でも大規模な肥育が行われている。このように、土地の条件や消費地との距離を考えた合理的な生産によって、高品質な牛肉を世界中に供給している。

［5］
次の文章は、中学生のナツオさんと大学生の兄との、ある日の会話の内容である。文章を読み、次の問いに答えなさい。

ナツオさん：この前、お兄ちゃんが投票に行った選挙はなんだっけ？
兄　　：参議院議員選挙だよ。この選挙については授業でも習うよね。
ナツオさん：参議院議員の（　X　）を（　Y　）年ごとに選ぶ選挙だよね。
兄　　：では、参議院と衆議院の違いについては、どんなことを習ったのかな？
ナツオさん：基本的には対等な関係だけど、a)「衆議院の優越」が認められていると習ったよ。
兄　　：ナツオが将来、参議院議員に立候補したら、一票入れてやるよ。
ナツオさん：立候補するには（　Z　）歳以上にならないといけないから、だいぶ先だね。
兄　　：国会議員になったとしたら、ナツオはどんなことに取り組みたいのかな？
ナツオさん：まずは b）働き方改革かな。お父さんもなかなか休みが取れないみたいで大変そうだよ。
兄　　：環境問題も大事だから、国民の c）環境権の保護についても取り組んでほしいな。
ナツオさん：お母さんは、詐欺事件や d）契約をめぐるトラブルが怖いと言っていたよね。
兄　　：SNS にも様々なニュースの解説が載っていたりするけど、どれが本当の情報なのかわからないものもあるよね。
ナツオさん：そうだね。e）メディアリテラシーを身につけないとね。

問１　文章中の（　X　）～（　Z　）に当てはまる語句の組み合わせとして正しいものを、ア～エから１つ選び、記号で答えなさい。
ア　X：全員　Y：6　Z：25　　イ　X：全員　Y：6　Z：30
ウ　X：半数　Y：3　Z：25　　エ　X：半数　Y：3　Z：30

問２　下線部 a）について、参議院に対して衆議院の優越が認められている理由を説明しなさい。

問３　選挙では、「一票の格差」が問題になることがある。一票の格差について、次の文章中の空欄（　A　）に当てはまる言葉を答えなさい。

日本国憲法では、生まれや政治的思想などの（　A　）が保障されているが、一票の格差が大きくなると、各選挙区の議員一人当たりの人口の差によって、それぞれの有権者が持つ一票の価値の差が生じるため、最高裁判所は日本国憲法に定める（　A　）に反しているという判決が出たことがある。

問 4　下線部 b）について、2025 年時点の労働基準法の内容として適当でないものをア～エから 1 つ選び、記号で答えなさい。

ア　労働条件は、労働者と使用者が、対等の立場において決定すべきものである。

イ　使用者は、労働者に、休憩時間を除き 1 週間に 48 時間を超えて労働させてはならない。

ウ　使用者は、労働者に対して、毎週少なくとも週 1 日の休日を与えなければならない。

エ　賃金について、性別によって差別的取扱いをしてはならない。

問 5　ナツオさんは、労働環境の変化について調べ、以下の資料を作成した。資料を読み取り検討した内容として適当でないものをア～エから 1 つ選び、記号で答えなさい。



資料 1　雇用形態別労働者の割合の推移　（2020 年「労働力調査」より作成）



資料 2　雇用形態別労働者の割合の男女比較　（2020 年「労働力調査」より作成）



資料３　非正規労働者として働く理由　（2019 年厚生労働省資料より作成）



資料４　正規労働者と非正規労働者の年齢別平均年収
（2021 年「賃金構造基本統計調査」より作成）

ア　2000 年からの 10 年間には「契約社員ほか」の労働人口は増加したのに、2010 年からの 10 年間では「契約社員ほか」の労働人口が減少したのはなぜだろう。その理由を調べてみよう。

イ　パートやアルバイト、派遣社員や契約社員などの非正規労働者として働く理由は、家庭に関する事項において男女差が大きいので、その背景に家庭生活における男女の役割の違いを調べてみよう。

ウ　正規労働者と非正規労働者の年齢別の平均年収の差は、25 歳から 59 歳まで拡大し続けているので、両者の生活上の違いが衣食住や教育などでどのように現れているか調べてみよう。

エ　非正規労働者として働く人が増加傾向にあるため、非正規労働者の年収でも安心して生活ができるための医療制度や生活保護制度などの福祉政策の内容がどう変わってきたかを調べてみよう。

問 6　下線部 c）について、環境権の立場から権利を主張しているものとして適当ではないものをア～エから 1 つ選び、記号で答えなさい。

ア　住んでいる家の隣にマンションが建てられ、日当たりが悪くなった。そのため、その分の損害賠償をしてもらいたい。

イ　空港の近くに住んでいるが、夜の 10 時にも飛行機の離発着の騒音で寝ることができない。また、墜落の危険性もあるため、損害賠償を払ってもらいたい。

ウ　家の近くに公共交通機関がなく、通院や通学に不便である。そのため、路線バスなどの公共交通機関を充実させてほしい。

エ　家の隣の工場からの悪臭がひどく、窓を開けることができない。健康的な生活を送りたいため、対策していただきたい。

問 7　日本では、若者の社会への積極的な参加を進めるなどの観点から、成年年齢が 18 歳に引き下げられた。現在、18 歳、19 歳の若者に認められていることについて述べたア～オの文のうち、内容が適当なものをすべて選び、記号で答えなさい。

ア　国政選挙だけでなく、地方選挙で知事や市長を選ぶ選挙で投票することが可能となった。

イ　携帯電話の契約やクレジットカードの作成などを、親などの同意なしで行うことが可能になった。

ウ　成人としての責任と自主性を尊重するため、喫煙や飲酒することが可能になった。

エ　主権者としての意識向上などの理由で、裁判員裁判に裁判員として参加することが可能になった。

オ　積極的な社会参画などの目的から、公認会計士や司法書士などの資格取得が可能になった。

問８　下線部 d）について、以下のア～エは宅配ピザを注文し、代金を払いレシート（領収書）を手渡されるまでの過程を示したものである。宅配ピザを注文したとき、契約が成立する段階として最も適当なものを１つ選び、記号で答えなさい。



電話でピザを注文し、店員が届ける時間を答えた。

ア



ピザの配達員が注文者の自宅に到着した。

イ



注文者が配達されたピザを受け取り、代金を支払った。

ウ



配達員が代金を確認し、レシート（領収書）を手渡した。

エ

問９　下線部 e）について、メディアリテラシーとはどのような能力か、「批判的」という語句を使い説明しなさい。